السنة

5 ابتدائي

تمارين الدعم والتقوية

الوحدة ❶

الدروس المستهدفة:

1) الأعداد الصحيحة : الملايين والملايير (قراءة، كتابة، مقارنة وترتيبا)

2) قياس الزوايا

3) قياس الأطوال والكتل والمساحات

4) الأعداد الصحيحة الطبيعية، الأعداد العشرية (الجمع والطرح)

الأستاذ: سعيد الميس

Page Facebook « Mes fiches »

اسم المتعلم (ة) :
.....

سلسلة تمارين الدعم في الرياضيات
الوحدة 1 - المستوى 5

mes fiches
هذا الشعار لا يظهر عند الطباعة
Mes fiches

1) أتمم الجدول التالي بما هو مطلوب :

كتابة العدد بالأرقام	كتابة العدد بالحروف
8 750 000 000	
	خمس مئة وعشرين مليونا وأربع مئة وسبعة

2) رتب الأعداد التالية ترتيبا تناقصيا :

5 760 000 ; 23 000 999 ; 4 020 000 400 ; 678 930 303

.....

3) فكك الأعداد التالية كما في المثال :

739 890 200 = 739 000 000 + 890 000 + 200

- 2 659 324 = ...

- 339 302 689 = ...

4) ماذا يمثل الرقم 5 في كل عدد من الأعداد التالية :

- 407 560 : .....

- 537 942 : .....

5) أحسب قياس الزاوية COB بدون استعمال المنقلة :

.....

.....

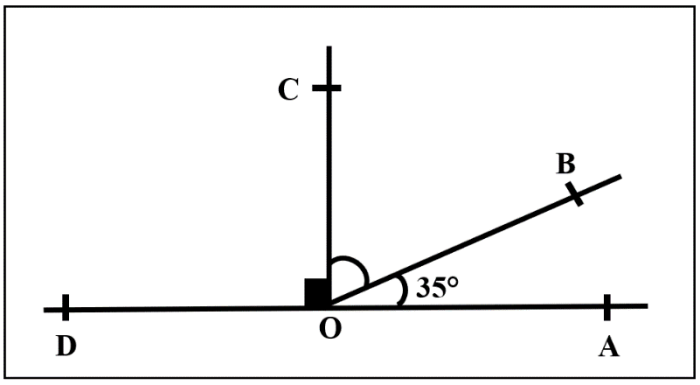

6) أرسم الزاوية POM قياسها 130°.

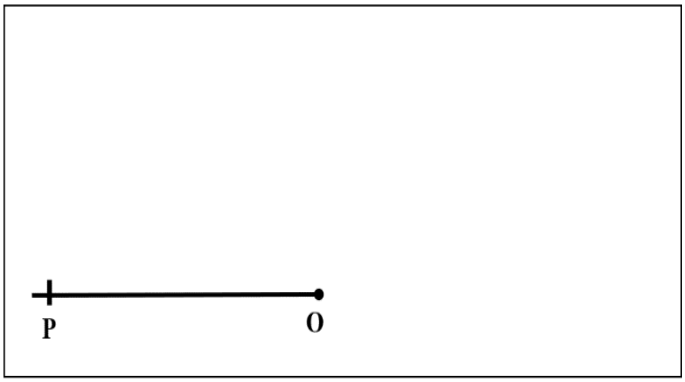

6) أتمم التحويل بتوظيف الجدول :

kg	hg	dam	g	dg	cg	mg

- 34 g = ... dag
- 0,9 kg = ... hg
- 450 cg = ... dag

7) حول للوحدة المطلوبة وذلك بالاستعانة بجداول التحويلات :

- 67 hm = ... km ; - 500 m = ... cm

- 2,6 dm^2 = ... m^2 ; - 30 dam^2 = ... km^2

8) قام متسابق بقطع مسافة 25km انطلاقا من النقطة A إلى D.

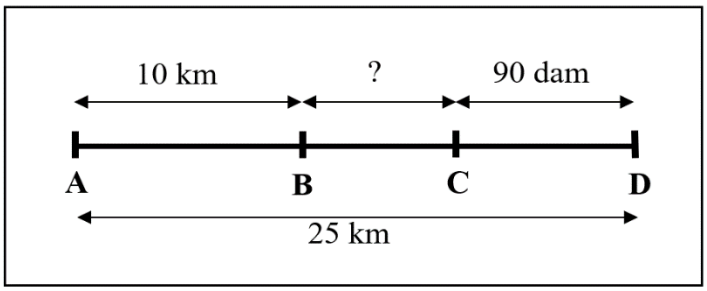

أ- أحسب المسافة بين النقطة B و C.

.....

.....

.....

.....

9) ضع وأنجز العمليات التالية :

64 830 + 2829 ; 9228,29 – 7291,5

10) اشترى سعيد تلفازا بموسم التخفيضات بأحد المتاجر الكبرى

كم وفر سعيد ؟

.....

.....

.....

.....